Централизованное тестирование по всемирной истории новейшего времени, 2016

При выполнении заданий с кратким ответом впишите в поле для ответа цифру, которая соответствует номеру правильного ответа, или число, слово, последовательность букв (слов) или цифр. Ответ следует записывать без пробелов и каких-либо дополнительных символов. Имена правителей в заданиях с кратким ответом необходимо указывать словами: Пётр Первый или Пётр Великий, но не Пётр 1 или Пётр I.

В заданиях, где нужно установить соответствие между двумя столбцами, ответ запишите в виде сочетания букв и цифр, соблюдая алфавитную последовательность букв левого столбца. Некоторые данные правого столбца могут использоваться несколько раз или не использоваться вообще. Например: А1Б1В4Г2.

Если вариант задан учителем, вы можете вписать или загрузить в систему ответы к заданиям с развернутым ответом. Учитель увидит результаты выполнения заданий с кратким ответом и сможет оценить загруженные ответы к заданиям с развернутым ответом. Выставленные учителем баллы отобразятся в вашей статистике.

1. По условиям Версальского мирного договора (1919) «вольным городом» под управлением Лиги Наций был объявлен:

1) Париж 2) Данциг (Гданьск) 3) Брест 4) Мюнхен

2. Коммунистический Интернационал был создан в марте 1919 г. в:

1) Берлине 2) Праге 3) Москве 4) Лондоне

3. Установите правильное утверждение относительно мирового экономического кризиса (1929—1933).

1) Одной из причин кризиса был крах Версальско-Вашингтонской системы международных отношений.
2) В годы кризиса правительство Г. Гувера в США предоставляло монополиям государственные займы и субсидии.
3) В Великобритании кризис начался раньше, чем в других странах.
4) Социал-реформистский вариант выхода из кризиса предполагал прямое руководство со стороны государства всеми отраслями экономики и общественной жизни.

4. Режим «санации» в межвоенный период был установлен в государстве, территория которого обозначена на карте
цифрой:

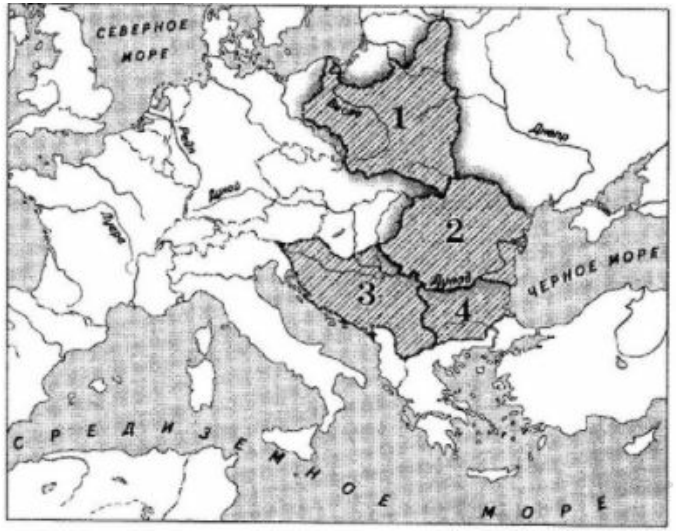

1) 1 2) 2 3) 3 4) 4

5. Народный фронт Испании одержал победу на выборах в кортесы в:

1) 1934 г. 2) 1936 г. 3) 1938 г. 4) 1939 г.

6. В мае 1935 г. СССР подписал договоры о взаимной помощи с:

1) Польшей и Англией 2) Германией и Италией 3) Францией и Чехословакией 4) Австрией и Румынией

7. Первостепенную важность для жизни людей имело открытие британским ученым А. Флемингом:

1) радиоактивности 2) пенициллина 3) витаминов 4) гормонов

8. Укажите событие, связанное с изображенным на снимке государственным деятелем:

1) подписание пакта Молотова — Риббентропа 2) мюнхенский «пивной путч»
3) передача власти НСДАП 4) «поход на Рим»

9. Всероссийский Центральный Исполнительный Комитет (ВЦИК) — высший законодательный орган Советов — в октябре 1917 г. возглавил большевик:

1) Л. Г. Корнилов 2) Н. Н. Юденич 3) А. Ф. Керенский 4) Л. Б. Каменев

10. В годы Гражданской войны в России представителями белого движения были:

1) В. И. Чапаев и С. М. Буденный 2) П. Н. Врангель и А. В. Колчак
3) Л. Г. Корнилов и М. В. Фрунзе 4) Н. И. Махно и М. Н. Тухачевский

11. Новая экономическая политика в Советской России предусматривала:

А — стимулирование частной инициативы
Б — замену продналога продразверсткой
В — введение всеобщей трудовой повинности
Г — развитие товарно-денежных отношений
Д — отмену карточной системы и уравнительного распределения

1) АГД 2) АВД 3) БВГ 4) БГД

12. Установите последовательность событий в истории Советского государства:

А — начало сплошной коллективизации сельского хозяйства
Б — отказ от политики «военного коммунизма»
В — принятие плана ГОЭЛРО
Г — переход к индустриализации

1) БВАГ 2) ВБАГ 3) ВГАБ 4) ВБГА

13. Укажите область культуры, в которой в 1920-е гг. — первой половине 1930-х гг. работал К. С. Малевич:

1) музыка 2) театр 3) живопись 4) кинематограф

14. Гражданская война в России окончилась с выходом Красной Армии к Тихому океану и взятием Владивостока в:

1) 1920 г. 2) 1922 г. 3) 1923 г. 4) 1924 г.

15. Следствием прихода к власти Коноэ Фумимаро в 1940 г. в Японии был(-а, -о):

1) роспуск всех политических партий 2) самоизоляция страны
3) основание новой императорской династии 4) развитие парламентаризма

16. Укажите событие, которое произошло *последним* среди перечисленных:

1) подписание Турцией Севрского мирного договора
2) приход Мухаммеда Захир-шаха к власти в Афганистане
3) принятие «меморандума Танака» в Японии
4) создание Китайской Советской Республики

17. Территория, на которой в 1940 г. был сформирован профашистский режим маршала А. Ф. Петена, обозначена на карте цифрой:

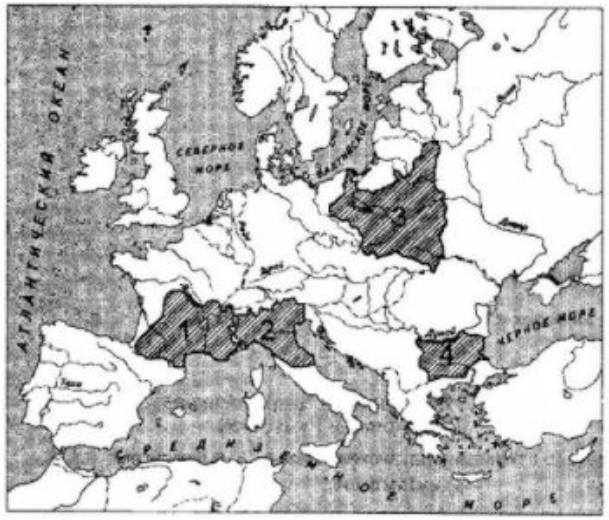

1) 1 2) 2 3) 3 4) 4

18. К причинам неудач Красной Армии в начальный период войны относится:

1) распространение на Германию действия закона о ленд-лизе
2) внезапность нападения Германии 3) ведение войны на два фронта
4) присоединение Великобритании и США к «Тройственному пакту»

19. Основным вопросом на Тегеранской конференции глав трех великих держав — СССР, США и Великобритании — в 1943 г. было(-а):

1) выделение СССР помощи по ленд-лизу 2) наказание фашистских преступников
3) организация боевых действий против Италии
4) открытие второго фронта в Западной Европе

20. Общее командование десантной операцией «Оверлорд» (июнь 1944 г.) осуществлял генерал:

1) Ш. де Голль 2) И. Броз Тито 3) Д. Эйзенхауэр 4) Б. Монтгомери

21. Установите верное утверждение.

1) Движение Сопротивления приобрело широкий размах в Греции и Югославии.
2) Во время контрнаступления Красной Армии под Сталинградом партизаны осуществили операцию «рельсовая война».
3) Центральный штаб партизанского движения (ЦШПР) в 1942 г. возглавил П. М. Машеров.
4) Армия Людова, действовавшая на территории Польши, ориентировалась на эмигрантское правительство в Лондоне.

22. Установите соответствие между датами и событиями Второй мировой и Великой Отечественной войн.

А) 1941 г.
Б) 1942 г.
В) 1943 г.
Г) 1945 г.

1) бои за остров Окинава
2) разгром немецкой армии Э. Роммеля в битве под Эль-Аламейном (Египе
3) наступательная операция «Багратион» 4) подписание Атлантической х
5) танковое сражение под Прохоровкой

23. В период «холодной войны» основной внешнеполитической проблемой США было:

1) противостояние с Советским Союзом
2) участие в интеграционных процессах Европейского союза
3) политическое соперничество с Японией
4) усиление борьбы с международным терроризмом

24. Установите последовательность событий в истории стран Центральной и Юго-Восточной Европы во второй половине 1940-х гг. — начале XXI в.:

А) создание Организации Варшавского договора (ОВД)
Б) роспуск Совета экономической взаимопомощи (СЭВ)
В) провозглашение независимости Черногории;
Г) избрание Л. Валенсы президентом Польши.

1) АГБВ 2) БГАВ 3) ГВБА 4) АВБГ

25. Социально-экономическая политика Ш. де Голля во Франции была направлена на:

1) увеличение доли работников, занятых в сельском хозяйстве
2) сокращение государственной поддержки экономики и науки
3) освобождение экономики от чрезмерного контроля государства
4) внедрение в производство достижений НТР

26. Экономическая жизнь в западных зонах Германии во второй половине 1940-х гг. характеризовалась:

1) проведением экономической блокады со стороны США и европейских государств
2) усилением экономических связей с восточной зоной
3) развитием рыночных отношений
4) отказом от финансовой помощи по плану Маршалла

27. На референдуме, проведенном правительством А. де Гаспери в Италии, было принято решение о (об):

1) сохранении монархии 2) объявлении амнистии участникам фашистского движения
3) введении республиканского строя
4) запрете вступления страны в военно-политические блоки

28. Укажите событие, которое произошло *первым* среди перечисленных:

1) приход Дж. Мейджора к власти в Великобритании
2) подписание Маастрихтского договора 3) создание Совета Европы (СЕ)
4) заключение Договора об основах отношений между ФРГ и ГДР

29. Установите последовательность прихода к власти государственных деятелей.

А — Дж. Картер
Б — В. Брандт
В — М. Монти
Г — Т. Блэр

1) БАГВ 2) АВГБ 3) АБВГ 4) БВАГ

30. Одним из факторов успешного послевоенного восстановления разрушенного народного хозяйства СССР был(-о, -а):

1) напряженный труд советских людей 2) использование помощи по плану Маршалла
3) финансовая поддержка со стороны стран Запада
4) внедрение элементов рыночной экономики

31. Для сельского хозяйства СССР во второй половине 1960-х гг. была(-о) характерна(-о):

1) отмена гарантированной оплаты труда колхозников
2) принятие общегосударственной «Продовольственной программы»
3) повышение закупочных цен на сельскохозяйственные продукты
4) разрешение использования наемного труда

32. Лидеры России, Украины и Беларуси 8 декабря 1991 г. подписали:

1) новый Союзный договор 2) соглашение о прекращении существования СССР
3) программу «Партнерство во имя мира»
4) соглашение об ограничении стратегических наступательных вооружений

33. Одним из важнейших направлений экономической реформы в России после распада СССР был(-о):

1) отказ от привлечения иностранного капитала в экономику страны
2) создание государственных сельскохозяйственных объединений
3) введение свободных цен 4) завершение национализации частных предприятий

34. Укажите фамилии советских композиторов.

А — Ч. Т. Айтматов
Б — Г. В. Свиридов
В — А. Г. Шнитке
Г — Е. К. Тикоцкий
Д — А. Н. Сокуров

1) АБД 2) АВГ 3) БВГ 4) ВГД

35. М. С. Горбачев был избран Генеральным секретарем ЦК КПСС в:

1) марте 1985 г. 2) апреле 1986 г. 3) марте 1988 г. 4) августе 1991 г.

36. Процесс освобождения стран и народов Азии и Африки от колониального господства после Второй мировой войны вошел в историю под названием:

1) неоколониализм 2) Движение неприсоединения 3) «третий мир»
4) деколонизация

37. В соответствии с Конституцией, вступившей в силу в 1950 г., Индия:

1) сохранила членство в Британском Содружестве наций
2) вышла из состава Содружества наций 3) поддержала объединение с Бангладеш
4) предоставила независимость Кашмиру

38. Военно-политическое противостояние между Востоком и Западом на рубеже 1960-х гг. в городе, обозначенном флажком на карте, стало началом:

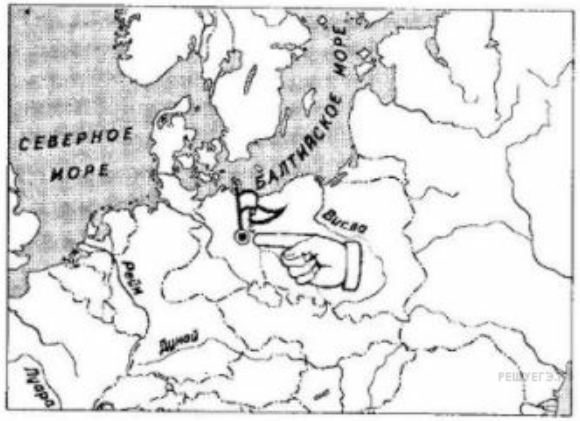

1) «будапештской осени» 2) «пражской весны» 3) Суэцкого кризиса
4) второго Берлинского кризиса

39. Установите соответствие между понятиями и определениями.

А) последовенные принудительные платежи, взимаемые с побежденного государства государством-победителем
Б) насильственное присоединение, захват одним государством всей или части территории другого государства
В) насильственное вмешательство одного или нескольких государств во внутренние дела другого государства
Г) временный захват войсками одного государства территории другого государства (или ее части) с установлением собственных законов и администрации

1) оккупация
2) интервенция
3) контрибуция
4) аннексия

Ответ запишите в виде сочетания букв и цифр, соблюдая алфавитную последовательность букв. Например: А1Б4В3Г2.

40. Запишите фамилию изображенного на снимке советского политического и государственного деятеля, который в январе 1918 г. огласил «Декларацию прав трудящегося и эксплуатируемого народа».

41. Всероссийскую чрезвычайную комиссию (ВЧК), созданную в 1917 г. для «борьбы с контрреволюцией и саботажем», возглавил _____ (только фамилия).

42. Установите последовательность событий в истории Великой Отечественной и Второй мировой войн:

А) подписание Декларации Объединенных Наций в Вашингтоне
Б) капитуляция немецко-итальянской группировки в Тунисе
В) Потсдамская конференция
Г) освобождение Крыма

43. Наступательная операция Красной Армии в ходе Второй мировой войны, план которой указан на карте, завершилась освобождением города _____ (название).

44. Укажите *три события* в истории стран Европы и США, которые произошли во второй половине XX — начале XXI в.:

1) подписание Рапалльского договора между Германией и Советской Россией
2) подписание соглашения о создании Европейского экономического сообщества (ЕЭС)
3) создание Всемирной торговой организации (ВТО)
4) подписание Киотского протокола
5) образование Чехословацкой Республики
6) подписание Рейнского гарантийного пакта

45. Установите личность и запишите только фамилию.

Итальянский политический и государственный деятель, лидер партии правых сил «Вперед, Италия!».

46. Установите соответствие между событиями и датами.

А) подписание Дейтонского соглашения	1) 1947 г.
Б) создание Северного совета из депутатов национальных парламентов	2) 1952 г.
В) установление режима Пятой республики во Франции	3) 1958 г.
Г) принятие Конституции Италии	4) 1990 г.
	5) 1995 г.

Ответ запишите в виде сочетания букв и цифр, соблюдая алфавитную последовательность букв. Помните, что некоторые данные правого столбца могут не использоваться. Например: А1Б5В3Г2.

47. Л. И. Брежнев сменил Н. С. Хрущева на посту лидера СССР в _____ году.

48. Установите соответствие между личностями и событиями.

А) Н. С. Хрущев
Б) Б. Н. Ельцин
В) М. С. Горабчев
Г) Д. А. Медведев

1) подписание соглашения о создании Содружества Независимых Государств (СНГ)
2) создание Таможенного союза
3) вывод советских войск из Афганистана
4) принятие Конституции развитого социализма
5) принятие Программы партии на XXII съезде КПСС

Ответ запишите в виде сочетания букв и цифр, соблюдая алфавитную последовательность букв. Помните, что некоторые данные правого столбца могут не использоваться. Например: А1Б5В3Г2.

49. Социалистическая революция на Кубе началась под руководством политического лидера, который затем возглавил Кубинское правительство, _____ (только фамилия).

50. Установите последовательность событий в сфере международных отношений во второй половине XX —
начале XXI В.:

А) заключение Договора об основах отношений между ФРГ и ГДР
Б) выдвижение гуамской доктрины Р. Никсона
В) военная операция против Ирака «Буря в пустыне»
Г) создание Движения неприсоединения